Prénom :……
Date :……..

LES PROBLÈMES (3) (« de plus » et « de moins »)

Lise a 8 billes. Timéo en a 3 de plus.
Combien de billes Timéo a-t-il ?



Phrase réponse:

Il a

Dessin/calcul:

Djibril a 12 timbres. Clara en a 2 de moins.
Combien de timbres Clara a-t-elle?

Phrase réponse:

Elle a

Dessin/calcul:

Le fermier a 30 poules. Sa voisine a 20 poules de plus que lui.
Combien de poules la voisine a-t-elle ?



Phrase réponse:

Elle a

Dessin/calcul:

Sophia a ramassé 14 champignons. Robin en a ramassé 10.
Sophia a combien de champignons de plus que Robin ?

Phrase réponse:

Elle a

Dessin/calcul:

Continue la frise.