Prénom :……
Date :……..

LES PROBLÈMES (15) (problèmes divers)

Dans son porte-monnaie, Fanny a 6 pièces de 50 centimes et 5 pièces de 20 centimes.

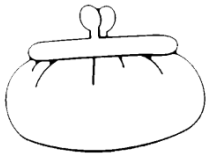

Quelle somme d'argent Fanny a-t-elle ?

Phrase réponse:

Dessin/calcul:

L'écureuil roux a 245 noisettes. Son ami l'écureuil gris en a 50 de moins.

Combien de noisettes l'écureuil gris a-t-il ?

Phrase réponse:

Dessin/calcul:

Malo construit une tour en empilant 6 cubes comme celui-ci.

Quelle est la hauteur de la tour de Malo ?

Phrase réponse:

Dessin/calcul:

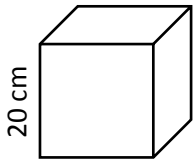

Arthur veut courir 1 km.
Il a déjà parcouru 750 m.

Quelle distance lui reste-t-il à parcourir ?

Phrase réponse:

Dessin/calcul: